5年	合同な図形（問題１）	ひにち	月　　日
なまえ		りかい度チェック	◎ りかいできた ○ ふつう △ むずかしかった

合同な図形を調べるには、基準（きじゅん）とする図形を
「動かしたり」、「回したり」、「裏返したり」して確認をするのだ

西園寺松座衛門（さいおんじまつざえもん）くん

1　次の図形の中から、合同な図形を3組見つけましょう。

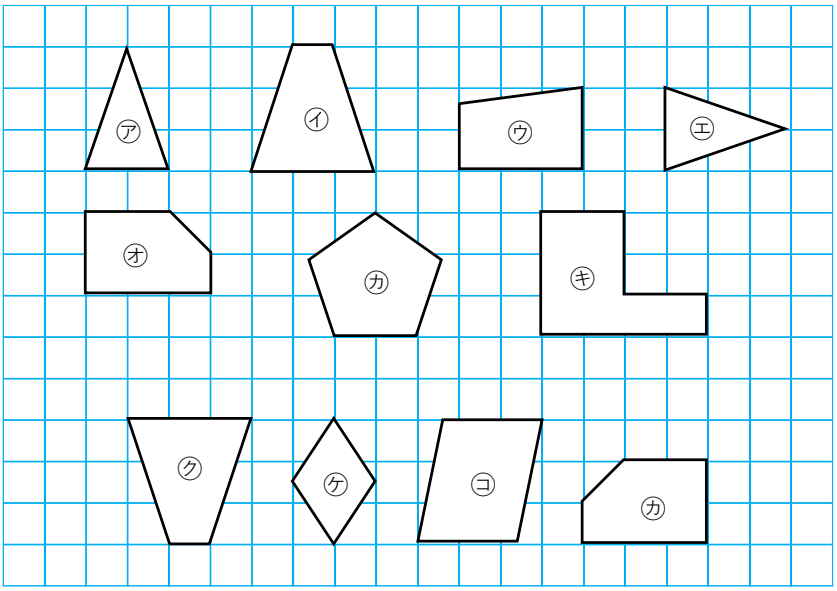

（　　と　　）

（　　と　　）

（　　と　　）

2　図形①と図形②は合同な三角形です。次の問題をときましょう。

①　頂点㋐に対応する頂点はどれか。

（　　）

②　角㋕の大きさは何度でしょうか。

（　　）

③　辺㋐㋒に対応する辺はどれか。

（辺　　）

④　辺㋔㋕の長さは何cmですか。

（　　）

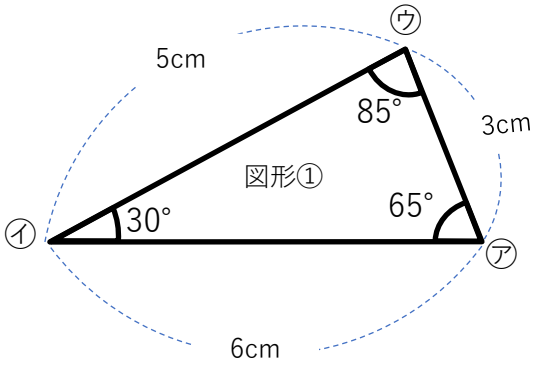

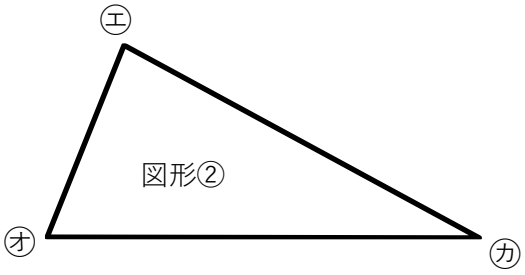

小学生まなび研究会
https://positive-learning.info/