5年	正多角形と円周の長さ（問題１）	ひにち	月　　日
なまえ		りかい度チェック	◎　りかいできた ○　ふつう △　むずかしかった

円周の求め方は、覚えているかな？
学年が上がっても使うぞ！

西園寺松座衛門くん

1　**円の中心のまわりの角を等分する方法で正多角形を書きましょう。**
コンパスと分度器を使用しましょう。

①　正五角形

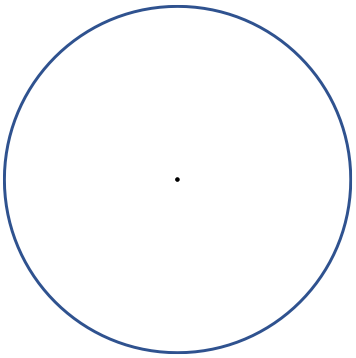

②　正六角形

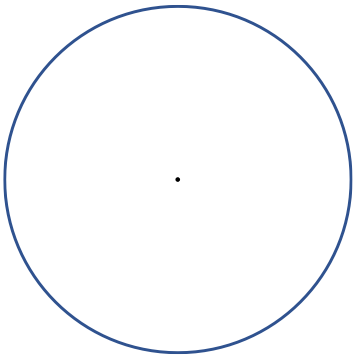

2　**以下の問題に答えましょう。**

①円周とはどこを指しますか。
下の円に記入しましょう。

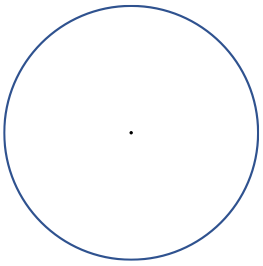

②直径とはどこを指しますか。
下の円に記入しましょう。



③半径とはどこを指しますか。
下の円に記入しましょう。

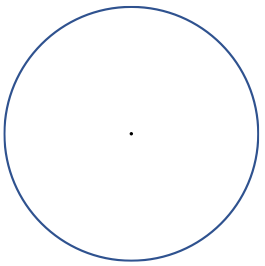

3　**次の円の円周の長さを求めましょう。**

①

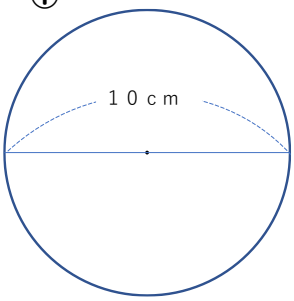

（　　cm）

②

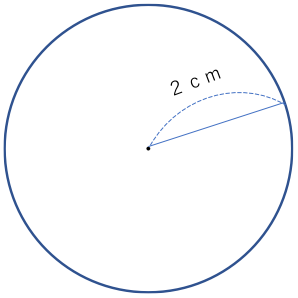

（　　cm）

③

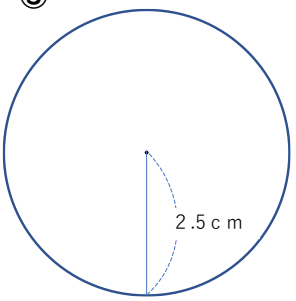

（　　cm）